Periodo	**SEGUNDO GUÍA 1**	**Semana 1 - 2**
Educador: GLENIZ GARCIA OSORIO		**Área: Geometría**
Grado: OCTAVO		**Grupo: 1 , 2 y 3**

Fecha máxima de entrega	**5 – 19 de abril 2021**
Ten presente	➢ Debe estar ordenado, con la letra y números del estudiante. ➢ La solución de los ejercicios **con los procedimientos adecuados** para llegar a la respuesta. (analizo principalmente procedimiento) ➢ SE DEBE COLOCAR EL ENUNCIADO DE CADA EJERCICIO y luego solucionarlo. ➢ **Se realizarán unas actividades en quizziz y cuestionario de google, estos se publicarán en el classroom con un tiempo definido.**
Recuerda	• Mandar las fotos de la actividad AL CLASSROOM, preferiblemente que estas fotos estén en un documento de Word o pdf con su respectivo orden. • Las fotos deben tener buena calidad en su imagen, se sugiere que no quede con sombras (ya que algunas personas les queda muy borrosa y no se aprecia bien los procesos) • **En caso de fraude mismas fotos o mismo trabajo será anulado y su nota será un 1.0 sin posibilidad de recuperar la nota.**

Les comparto los códigos de los diferentes grupos y asignaturas, para que se suscriban al classroom cuando les asignen el correo institucional.

Código	Grupo 8°1	Grupo 8°2	Grupo 8°3	Código	Grupo 8°1	Grupo 8°2	Grupo 8°3
Matemáticas	hpg3tzt	uogiyv2	q3kmpj3	Geometría	nrviyol	nbheubr	q5zs7fi

Propiedades de los triángulos y expresiones algebraicas

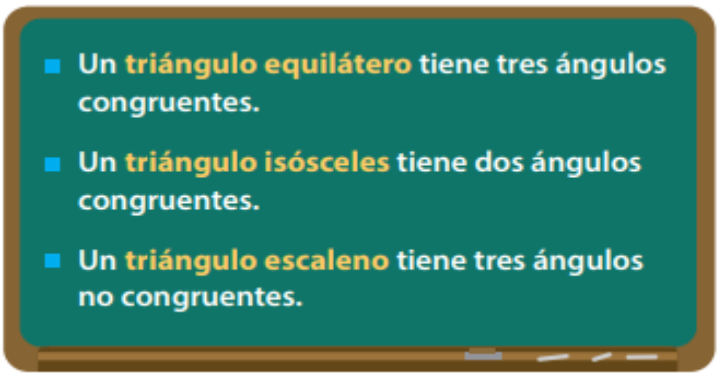

Correo: gleniz.garcia@virtual.edu.co

1. Teniendo en cuenta lo anterior, encuentre la medida de los ángulos faltantes. ¿Qué tipo de triángulo que se obtiene una vez identificado el valor de cada uno de los ángulos?

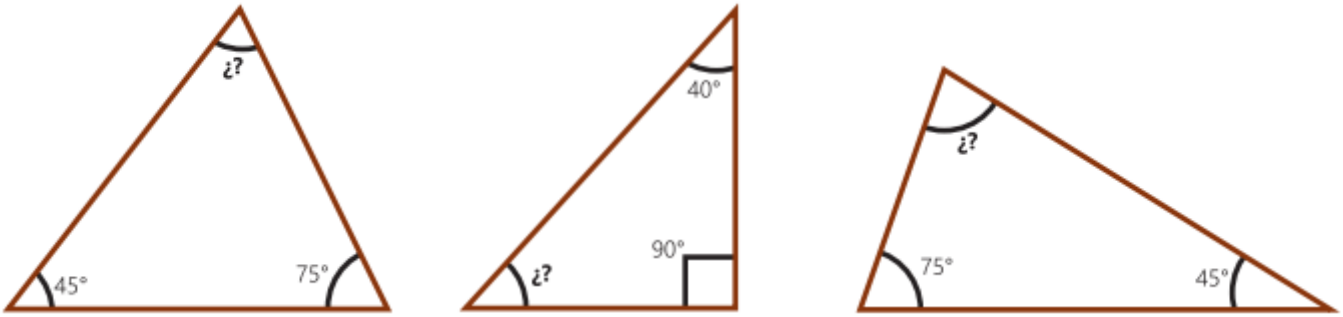

2. Teniendo en cuenta lo anterior, encuentre el valor de x en cada triángulo. Luego, encuentre la medida de todos los ángulos. ¿Qué tipo de triángulo que se obtiene una vez identificado el valor de cada uno de los ángulos?

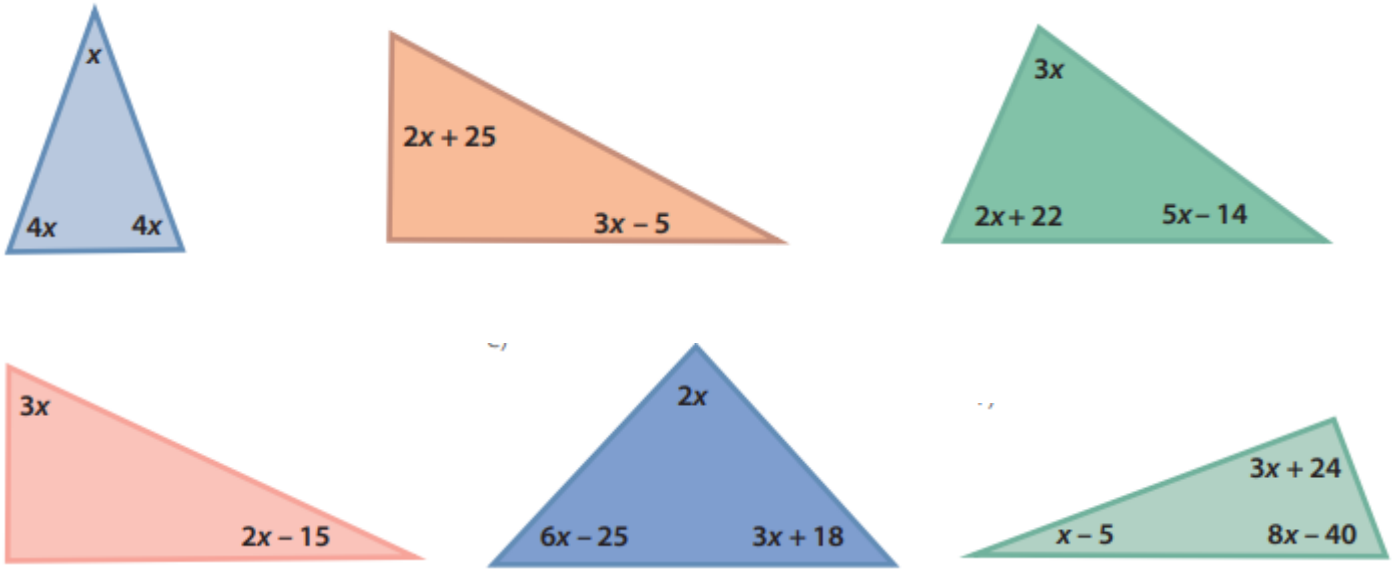

3. En un triángulo rectángulo uno de los ángulos agudos mide el valor de x en la ecuación **3x – 5 = 145**. ¿La medida del otro ángulo agudo del triángulo es?

Correo: gleniz.garcia@virtual.edu.co