Periodo	**PRIMERO**	**Semana 3 – 4**
Educador: GLENIZ GARCIA OSORIO		**Área: Geometría**
Grado: OCTAVO		**Grupo: 1 , 2 y 3**

Fecha máxima de entrega	19 de febrero 2021
Ten presente	➢ Los ejercicios deben quedar en el cuaderno de geometría, puede continuar en el cuaderno del año pasado. ➢ Debe estar ordenado, con la letra y números del estudiante. ➢ SE DEBE COLOCAR EL ENUNCIADO DE CADA EJERCICIO y luego solucionarlo.
Recuerda	**Correo Gleniz García** gleniz.garcia@virtual.edu.co • Mandar las fotos de la actividad AL CLASSROOM, preferiblemente que estas fotos estén en un documento de Word o pdf con su respectivo orden. • Las fotos deben tener buena calidad en su imagen, se sugiere que no quede con sombras (ya que algunas personas les queda muy borrosa y no se aprecia bien los procesos) • **En caso de fraude mismas fotos o mismo trabajo será anulado y su nota será un 1.0 sin posibilidad de recuperar la nota.** **Se obtendrá 1 nota de la actividad.**

Les comparto los códigos de los diferentes grupos y asignaturas, para que se unan al classroom

	Código Matemáticas	Geometría Código
Grupo 8°1	hpg3tzt	nrviyol
Grupo 8°2	uogiyv2	nbheubr
Grupo 8°3	q3kmpj3	q5zs7fi

Medidas de longitud

Perímetro de figuras

Una aplicación de ***algebra*** en ***geometría*** lo encontramos en los perímetros. Se entiende por perímetro a todo lo que rodea a una figura plana. Aplicando el ***algebra***, no haríamos otra cosa que sumar términos semejantes.

Al sumar términos semejantes estos deben tener la misma variable o incógnita (letra), y el mismo exponente.

Son **<u>términos semejantes</u>**

2x, 7x, 4x

2y, 5y, y

8xy, 4xy

No son términos semejantes

5xy, 7y

6z, 7y, 8xy

También se pueden incluir números sin ninguna variable (letra) y para resolverlos se deben seguir las ***reglas para suma y resta de algebra.***

Taller
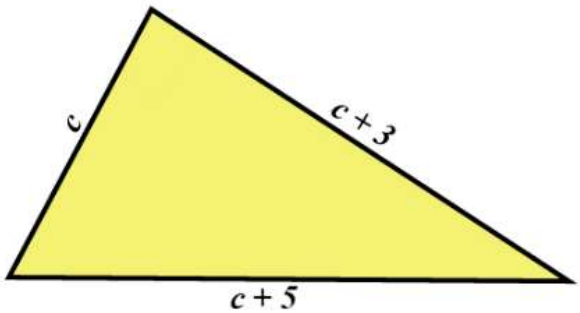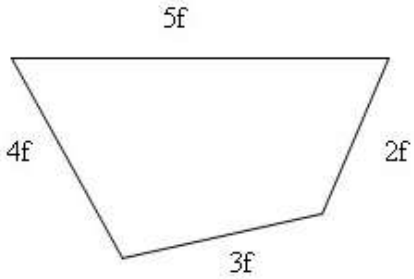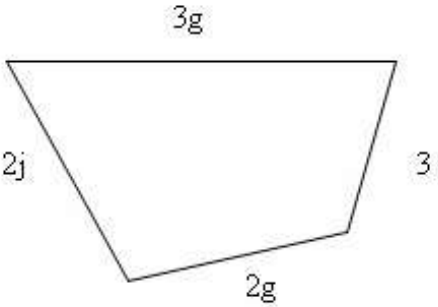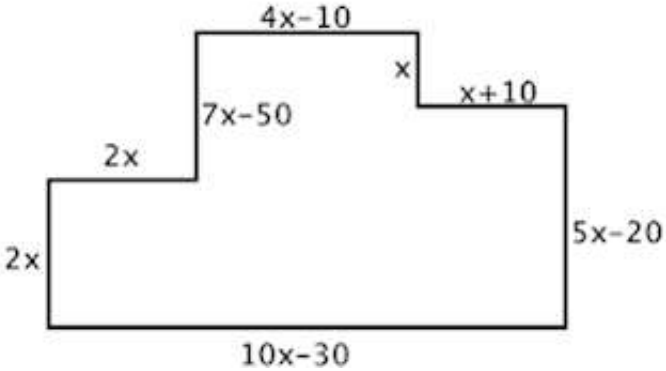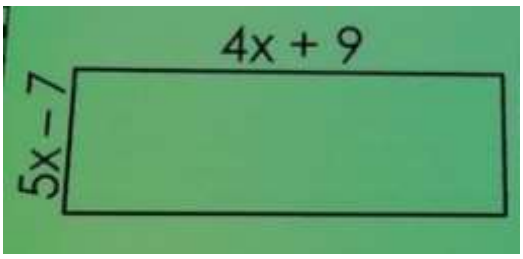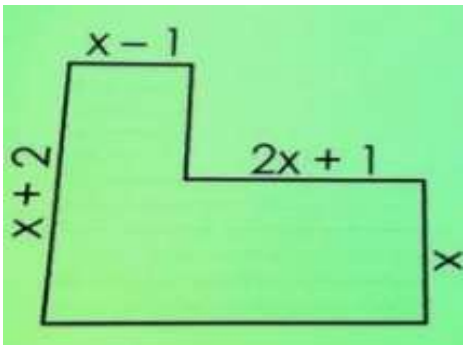
Encuentra el perímetro de las siguientes figuras